Nick = Contrato

14/10/26

# Pi - Actividad 1

26 iguales

27 → 1€ 1 peso menos



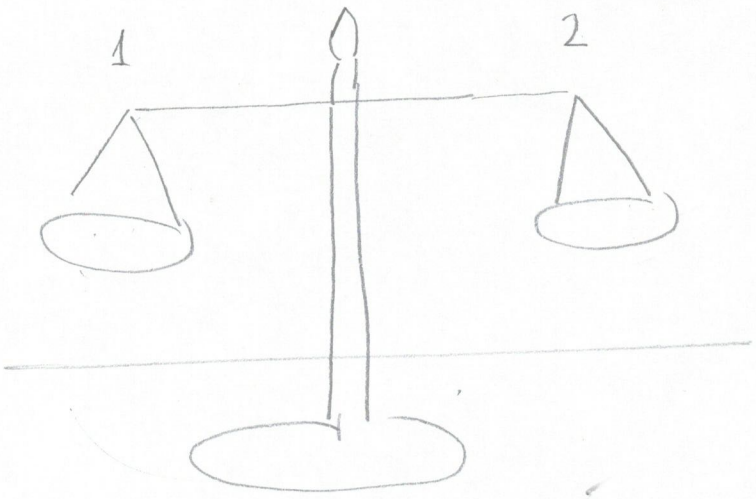


27:3=9

## 1º Pesada

3 Montones de 9

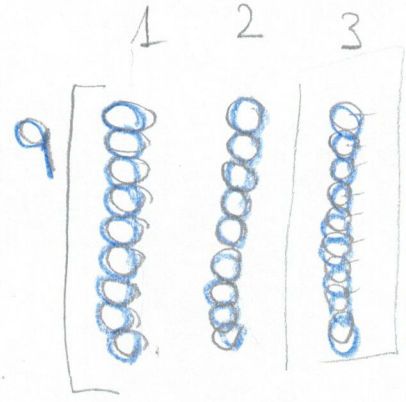


Averigua que grupo de 9 está la moneda.

## 2º Pesada



Se sabe donde está menos pesada

Se cojen 3 y 3,3

3 3º Pesada

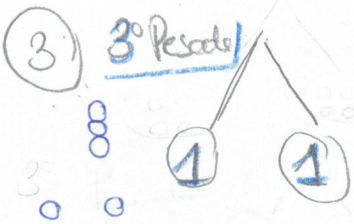


→ Se sabe cual es

Si ponemos fila 1 (9 monedas) fila 2 (9 monedas) si pesan lo mismo = Fila 3 es donde está la moneda.

Si ponemos fila 1 y fila 2 y me pesa más. Donde esta la moneda que pesa menos la tenemos.